دہائیاں اور اکائیاں

جماعت 1 کی ریاضی / اکائی 1 / تصور سمجھیں

دہائیاں اور اکائیاں گنیں۔ عدد لکھیں۔

دیکھیں

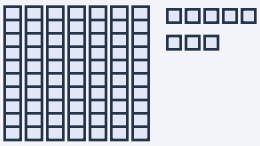

7 دہائیاں + 8 اکائیاں = **78**

01

دہائیاں اور اکائیاں گنیں۔ عدد لکھیں۔

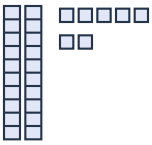

2 دہائیاں + 7 اکائیاں = **27**

02

دہائیاں اور اکائیاں گنیں۔ عدد لکھیں۔

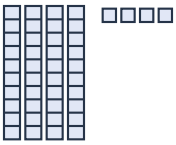

4 دہائیاں + 4 اکائیاں = **44**

03

دہائیاں اور اکائیاں گنیں۔ عدد لکھیں۔

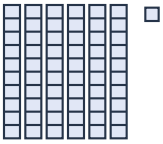

6 دہائیاں + 1 اکائی = **61**

04

دہائیاں اور اکائیاں گنیں۔ عدد لکھیں۔

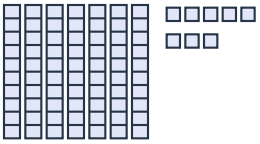

7 دہائیاں + 8 اکائیاں = **78**

05

دہائیاں اور اکائیاں گنیں۔ عدد لکھیں۔

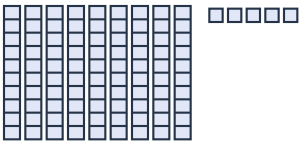

9 دہائیاں + 5 اکائیاں = **95**

06

دہائیاں اور اکائیاں گنیں۔ عدد لکھیں۔

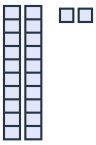

2 دہائیاں + 2 اکائیاں = **22**

دہائیاں اور اکائیاں

جماعت 1 کی ریاضی / اکائی 1 / مشق

دہائیاں اور اکائیاں گنیں۔ عدد لکھیں۔

دیکھیں

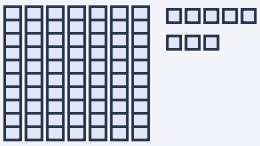

7 دہائیاں + 8 اکائیاں = **78**

07

دہائیاں اور اکائیاں گنیں۔ عدد لکھیں۔

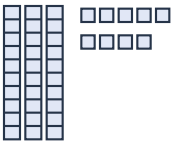

3 دہائیاں + 9 اکائیاں = **39**

08

دہائیاں اور اکائیاں گنیں۔ عدد لکھیں۔

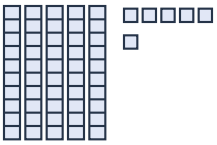

5 دہائیاں + 6 اکائیاں = **56**

09

دہائیاں اور اکائیاں گنیں۔ عدد لکھیں۔

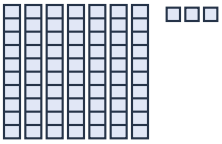

7 دہائیاں + 3 اکائیاں = **73**

10

دہائیاں اور اکائیاں گنیں۔ عدد لکھیں۔

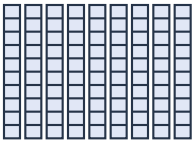

9 دہائیاں + 0 اکائیاں = **90**

11

دہائیاں اور اکائیاں گنیں۔ عدد لکھیں۔

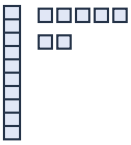

1 دہائی + 7 اکائیاں = **17**

12

دہائیاں اور اکائیاں گنیں۔ عدد لکھیں۔

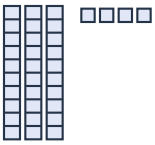

3 دہائیاں + 4 اکائیاں = **34**

بیس تک جمع

جماعت 1 کی ریاضی / اکائی 2 / تصور سمجھیں

ملائیں۔ کل کتنے ہیں؟

دیکھیں

6 + 9

6 + 9 = 6 + 4 + 5 = 10 + 5 = 15

01

ملائیں۔ کل کتنے ہیں؟

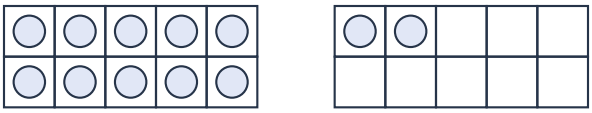

10 + 2

7 + 5 = **12**

02

ملائیں۔ کل کتنے ہیں؟

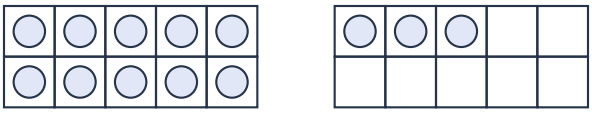

10 + 3

8 + 5 = **13**

03

ملائیں۔ کل کتنے ہیں؟

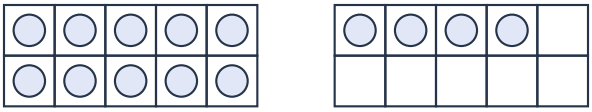

10 + 4

9 + 5 = **14**

04

ملائیں۔ کل کتنے ہیں؟

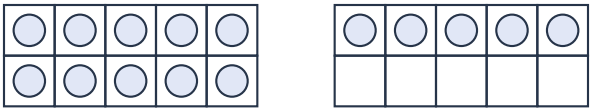

10 + 5

6 + 9 = **15**

05

ملائیں۔ کل کتنے ہیں؟

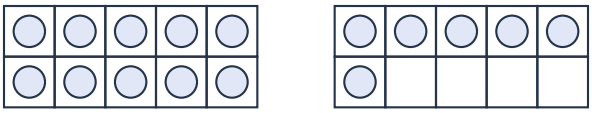

10 + 6

7 + 9 = **16**

06

ملائیں۔ کل کتنے ہیں؟

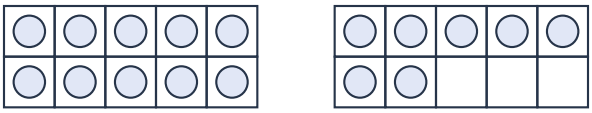

10 + 7

8 + 9 = **17**

بیس تک جمع

جماعت 1 کی ریاضی / اکائی 2 / مشق

ملائیں۔ کل کتنے ہیں؟

دیکھیں

6 + 9

6 + 9 = 6 + 4 + 5 = 10 + 5 = 15

08

ملائیں۔ کل کتنے ہیں؟

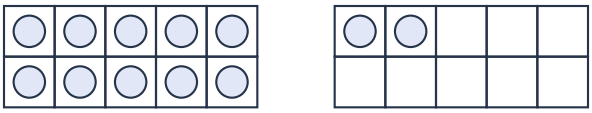

10 + 2

6 + 6 = **12**

07

ملائیں۔ کل کتنے ہیں؟

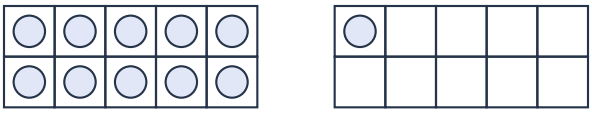

10 + 1

9 + 2 = **11**

10

ملائیں۔ کل کتنے ہیں؟

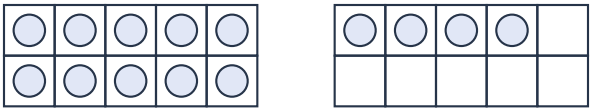

10 + 4

8 + 6 = **14**

09

ملائیں۔ کل کتنے ہیں؟

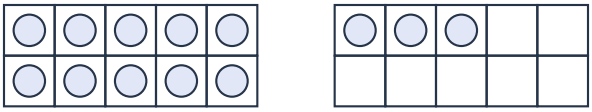

10 + 3

7 + 6 = **13**

12

ملائیں۔ کل کتنے ہیں؟

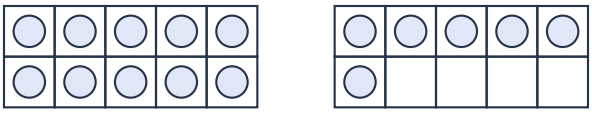

10 + 6

6 + 10 = **16**

11

ملائیں۔ کل کتنے ہیں؟

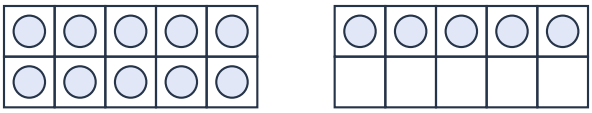

10 + 5

9 + 6 = **15**

بیس تک تفریق

جماعت 1 کی ریاضی / اکائی 3 / تصور سمجھیں

پیچھے کی طرف چھلانگ لگائیں۔ کس عدد پر پہنچے؟

دیکھیں

16 - 5 = **11**

01

پیچھے کی طرف چھلانگ لگائیں۔ کس عدد پر پہنچے؟

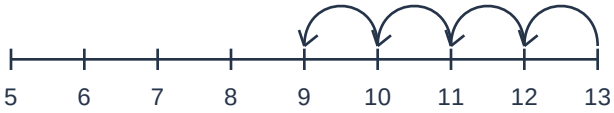

13 - 4 = **9**

02

پیچھے کی طرف چھلانگ لگائیں۔ کس عدد پر پہنچے؟

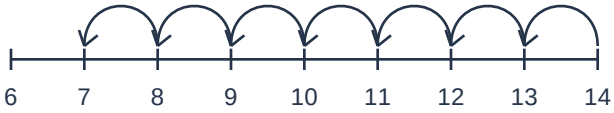

14 - 7 = **7**

03

پیچھے کی طرف چھلانگ لگائیں۔ کس عدد پر پہنچے؟

15 - 2 = **13**

04

پیچھے کی طرف چھلانگ لگائیں۔ کس عدد پر پہنچے؟

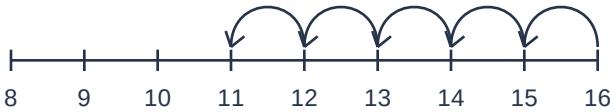

16 - 5 = **11**

05

پیچھے کی طرف چھلانگ لگائیں۔ کس عدد پر پہنچے؟

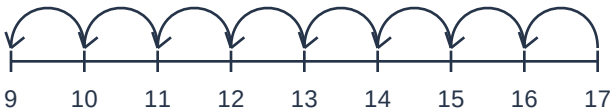

17 - 8 = **9**

06

پیچھے کی طرف چھلانگ لگائیں۔ کس عدد پر پہنچے؟

18 - 3 = **15**

بیس تک تفریق

جماعت 1 کی ریاضی / اکائی 3 / مشق

پیچھے کی طرف چھلانگ لگائیں۔ کس عدد پر پہنچے؟

دیکھیں

16 - 5 = **11**

07

پیچھے کی طرف چھلانگ لگائیں۔ کس عدد پر پہنچے؟



19 - 6 = **13**

08

پیچھے کی طرف چھلانگ لگائیں۔ کس عدد پر پہنچے؟

20 - 1 = **19**

09

پیچھے کی طرف چھلانگ لگائیں۔ کس عدد پر پہنچے؟

12 - 4 = **8**

10

پیچھے کی طرف چھلانگ لگائیں۔ کس عدد پر پہنچے؟

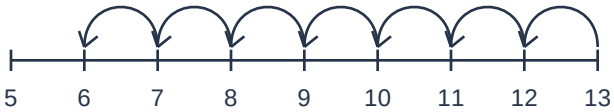

13 - 7 = **6**

11

پیچھے کی طرف چھلانگ لگائیں۔ کس عدد پر پہنچے؟

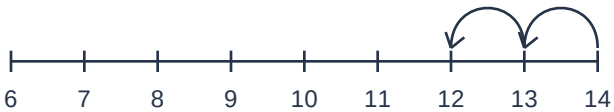

14 - 2 = **12**

12

پیچھے کی طرف چھلانگ لگائیں۔ کس عدد پر پہنچے؟

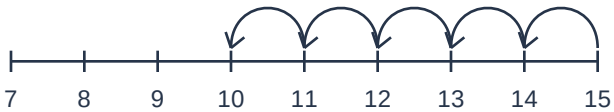

15 - 5 = **10**

نامعلوم حصے اور متعلقہ جمع و تفریق

جماعت 1 کی ریاضی / اکائی 4 / تصور سمجھیں

غائب حصہ معلوم کریں۔ دیکھیں

○ ○ ○ ○ ○ ○ + ○ ○ ○ ○

6 + 4 = 10

01

غائب حصہ معلوم کریں۔

○ ○ ○ + ○ ○ ○ ○

7 - 3 = 4

02

غائب حصہ معلوم کریں۔

○ ○ ○ ○ + ○ ○ ○ ○ ○ ○ ○

4 + 7 = 11

03

متعلقہ حسابی جملوں کا مجموعہ مکمل کریں۔

5 + 1 = 6

1 + 5 = 6

6 - 5 = 1

6 - 1 = 5

04

غائب حصہ معلوم کریں۔

○ ○ ○ ○ ○ ○ + ○ ○ ○ ○

6 + 4 = 10

05

غائب حصہ معلوم کریں۔

○ ○ ○ ○ ○ ○ ○ + ○ ○ ○ ○ ○ ○ ○

14 - 7 = 7

06

متعلقہ حسابی جملوں کا مجموعہ مکمل کریں۔

8 + 1 = 9

1 + 8 = 9

9 - 8 = 1

9 - 1 = 8

نامعلوم حصے اور متعلقہ جمع و تفریق

جماعت 1 کی ریاضی / اکائی 4 / مشق

متعلقہ حسابی جملوں کا مجموعہ مکمل کریں۔

دیکھیں

5 + 1 = 6

1 + 5 = 6

6 - 5 = **1**

6 - 1 = 5

08

غائب حصہ معلوم کریں۔

○ ○ + ○ ○ ○ ○ ○ ○ ○

2 + **7** = 9

07

غائب حصہ معلوم کریں۔

○ ○ ○ ○ ○ ○ ○ ○ ○ + ○ ○ ○ ○

13 - 9 = **4**

09

متعلقہ حسابی جملوں کا مجموعہ مکمل کریں۔

3 + 1 = 4

1 + 3 = 4

4 - 3 = **1**

4 - 1 = 3

10

غائب حصہ معلوم کریں۔

○ ○ ○ ○ + ○ ○ ○ ○

4 + **4** = 8

11

غائب حصہ معلوم کریں۔

○ ○ ○ ○ ○ + ○ ○ ○ ○ ○ ○ ○

12 - 5 = **7**

12

متعلقہ حسابی جملوں کا مجموعہ مکمل کریں۔

6 + 1 = 7

1 + 6 = 7

7 - 6 = **1**

7 - 1 = 6

ایک سو تک موازنہ اور ترتیب

جماعت 1 کی ریاضی / اکائی 5 / تصور سمجھیں

>، < یا = لکھیں۔

دیکھیں

62 < 91

01

>، < یا = لکھیں۔

23 < 34

02

>، < یا = لکھیں۔

36 < 53

03

چھوٹے سے بڑے کی ترتیب میں لکھیں۔

49 **72** **34**

34 **49** **72**

04

>، < یا = لکھیں۔

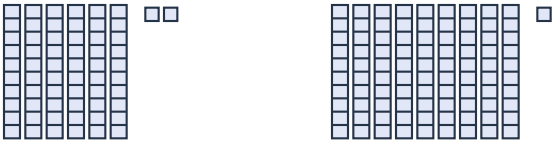

62 < 91

05

>، < یا = لکھیں۔

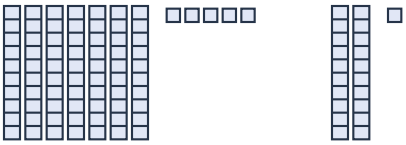

75 > 21

06

چھوٹے سے بڑے کی ترتیب میں لکھیں۔

88 **40** **55**

40 **55** **88**

ایک سو تک موازنہ اور ترتیب

جماعت 1 کی ریاضی / اکائی 5 / مشق

چھوٹے سے بڑے کی ترتیب میں لکھیں۔ دیکھیں

49 72 34

34 49 72

08

<، > یا = لکھیں۔

25 < 78

07

<، > یا = لکھیں۔



12 < 59

09

چھوٹے سے بڑے کی ترتیب میں لکھیں۔

38 97 76

38 76 97

10

<، > یا = لکھیں۔

51 > 27

11

<، > یا = لکھیں۔

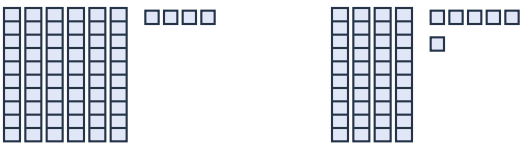

64 > 46

12

چھوٹے سے بڑے کی ترتیب میں لکھیں۔

77 65 97

65 77 97

دہائیوں کی جمع اور تفریق

جماعت 1 کی ریاضی / اکائی 6 / تصور سمجھیں

دہائیاں نکالیں۔

دیکھیں

48 - 10 = **38**

01

دہائیوں کو ملائیں۔

27 + 20 = **47**

02

دہائیاں نکالیں۔

34 - 10 = **24**

03

دہائیوں کو ملائیں۔

41 + 20 = **61**

04

دہائیاں نکالیں۔

48 - 10 = **38**

05

دہائیوں کو ملائیں۔

55 + 20 = **75**

06

دہائیاں نکالیں۔

62 - 10 = **52**

دہائیوں کی جمع اور تفریق

جماعت 1 کی ریاضی / اکائی 6 / مشق

دہائیاں نکالیں۔

دیکھیں

48 - 10 = **38**

07

دہائیوں کو ملائیں۔

69 + 20 = **89**

08

دہائیاں نکالیں۔

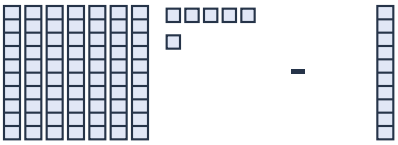

76 - 10 = **66**

09

دہائیوں کو ملائیں۔

23 + 20 = **43**

10

دہائیاں نکالیں۔

30 - 10 = **20**

11

دہائیوں کو ملائیں۔

37 + 20 = **57**

12

دہائیاں نکالیں۔

44 - 10 = **34**

لمبائی، وقت اور اعداد و شمار

جماعت 1 کی ریاضی / اکائی 7 / تصور سمجھیں

تصویر سمجھیں۔ جواب دیکھیں۔

دیکھیں

ایک تصویر = ایک

A ○ ○ ○

B □ □ □ □ □

کل = 8

برابر اکائیاں آپس میں جڑی ہوں

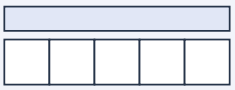

لمبائی = 5

چھوٹی سوئی: گھنٹے

3:30

01

ایک تصویر = ایک ووٹ۔
کل کتنے ووٹ ہیں؟

A ○ ○ ○

B □ □ □ □

کل = 7

02

لمبائی کتنی برابر اکائیوں کی ہے؟



لمبائی = 4

03

وقت لکھیں۔

4:30

04

ایک تصویر = ایک ووٹ۔
کل کتنے ووٹ ہیں؟

A ○ ○ ○ ○ ○ ○

B □ □ □

کل = 9

05

لمبائی کتنی برابر اکائیوں کی ہے؟

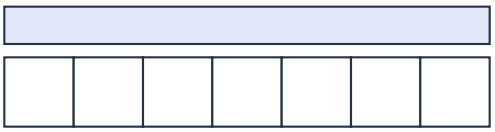

لمبائی = 7

06

وقت لکھیں۔

7:00

لمبائی، وقت اور اعداد و شمار

جماعت 1 کی ریاضی / اکائی 7 / مشق

تصویر سمجھیں۔ جواب دیکھیں۔

دیکھیں

ایک تصویر = ایک

A ○ ○ ○

B □ □ □ □ □

کل = 8

برابر اکائیاں آپس میں جڑی ہوں

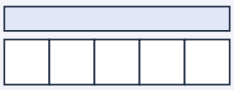

لمبائی = 5

چھوٹی سوئی: گھنٹے

3:30

08

لمبائی کتنی برابر اکائیوں کی ہے؟

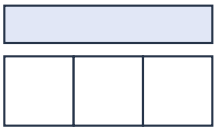

لمبائی = 3

07

ایک تصویر = ایک ووٹ۔
کل کتنے ووٹ ہیں؟

A ○ ○ ○ ○

B □ □

کل = 6

10

ایک تصویر = ایک ووٹ۔
کل کتنے ووٹ ہیں؟

A ○ ○

B □

کل = 3

09

وقت لکھیں۔

10:30

12

وقت لکھیں۔

1:00

11

لمبائی کتنی برابر اکائیوں کی ہے؟



لمبائی = 6

شکلیں، نصف اور چوتھائی حصے

جماعت 1 کی ریاضی / اکائی 8 / تصور سمجھیں

رنگے ہوئے حصے کی کسر لکھیں۔

دیکھیں

1/2

01

رنگے ہوئے حصے کی کسر لکھیں۔

1/2

02

رنگے ہوئے حصے کی کسر لکھیں۔

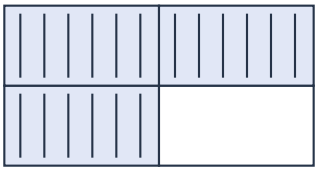

3/4

03

رنگے ہوئے حصے کی کسر لکھیں۔

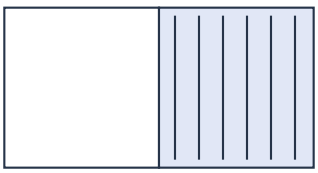

1/2

04

ملتی جلتی شکل کے گرد دائرہ لگائیں۔



05

رنگے ہوئے حصے کی کسر لکھیں۔

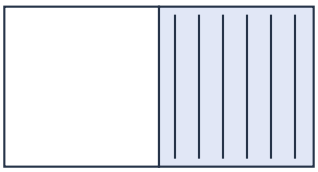

1/2

06

رنگے ہوئے حصے کی کسر لکھیں۔

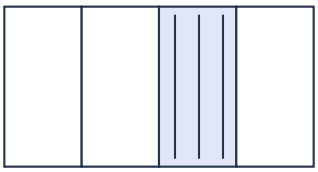

1/4

شکلیں، نصف اور چوتھائی حصے

جماعت 1 کی ریاضی / اکائی 8 / مشق

ملتی جلتی شکل کے گرد دائرہ لگائیں۔

دیکھیں

08

ملتی جلتی شکل کے گرد دائرہ لگائیں۔

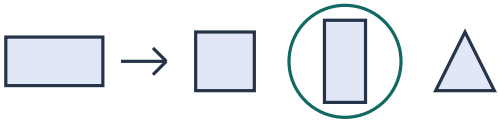

07

رنگے ہوئے حصے کی کسر لکھیں۔

1/2

10

رنگے ہوئے حصے کی کسر لکھیں۔

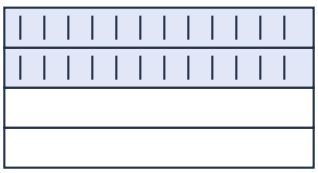

2/4

09

رنگے ہوئے حصے کی کسر لکھیں۔

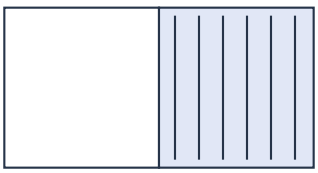

1/2

12

ملتی جلتی شکل کے گرد دائرہ لگائیں۔

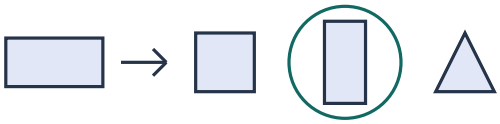

11

رنگے ہوئے حصے کی کسر لکھیں۔

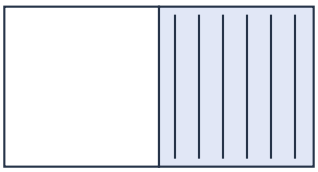

1/2