बराबर समूह

अभ्यास

बड़े समूह, समान विचार.

नाम: _____ तारीख: _____

सोचिए: एक ही संख्या को बार-बार जोड़ना कितनी बार गुणा करने के समान है।

1. बराबर समूह की गणना करें। इसे जोड़ के रूप में लिखें और गुणा के रूप में।

1) कुल कितने क्रेयॉन?

____ समूह हैं। हर समूह में ____ हैं।

____ + ____ + ... = ____ या ____ × ____ = ____

2) कुल कितने सेब?

____ समूह हैं। हर समूह में ____ हैं।

____ + ____ + ... = ____ या ____ × ____ = ____

3) कुल कितने गोले?

____ समूह हैं। हर समूह में ____ हैं।

____ + ____ + ... = ____ या ____ × ____ = ____

4) कुल कितने सेब?

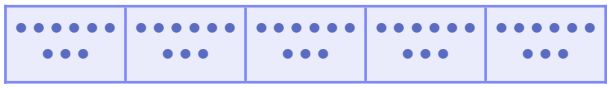

____ समूह हैं। हर समूह में ____ हैं।

____ + ____ + ... = ____ या ____ × ____ = ____

5) कुल कितने पहिये?

____ समूह हैं। हर समूह में ____ हैं।

____ + ____ + ... = ____ या ____ × ____ = ____

6) कुल कितने सेब?

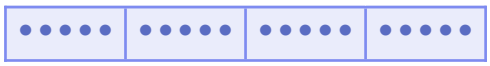

____ समूह हैं। हर समूह में ____ हैं।

____ + ____ + ... = ____ या ____ × ____ = ____

7) कुल कितने क्रेयॉन?

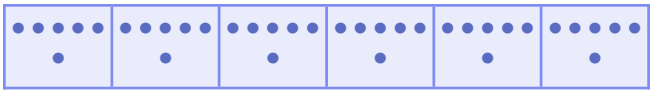

____ समूह हैं। हर समूह में ____ हैं।

____ + ____ + ... = ____ या ____ × ____ = ____

8) कुल कितने गोले?



____ समूह हैं। हर समूह में ____ हैं।

____ + ____ + ... = ____ या ____ × ____ = ____